S3-02	Fiche Activité 2	5e

Où s'exercent les forces ?

CT 1.2	Mesurer des grandeurs de manière directe ou indirecte.
CT 3.1	Exprimer sa pensée à l'aide d'outils de description adaptés : croquis, schémas, graphes, diagrammes, tableaux
CS 1.7	Interpréter des résultats expérimentaux, en tirer une conclusion et la communiquer en argumentant.

1 – Réaliser et tester les solutions techniques schématisées ci-dessous à l'aide du banc d'essai. Pour chacune d'elle, montrer par des point sur les schémas (•) les endroits où le pont exerce des efforts sur le terrain et par des flèches (→), la direction des forces.
2 – Rédige une conclusion au dos de la feuille sur la façon et le lieu où s'exercent les forces.

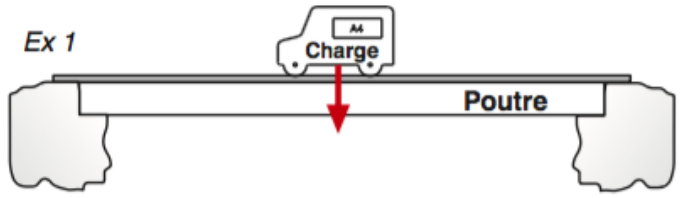	Observations :
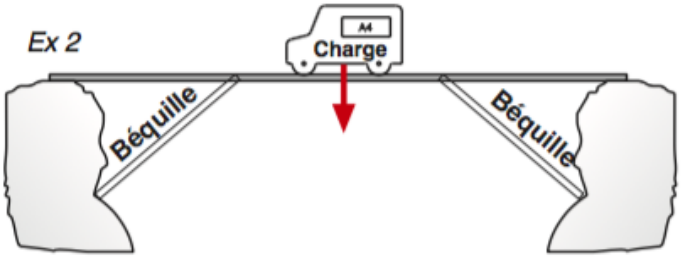	Observations :
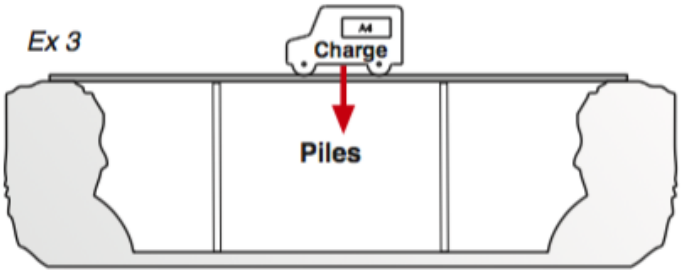	Observations :
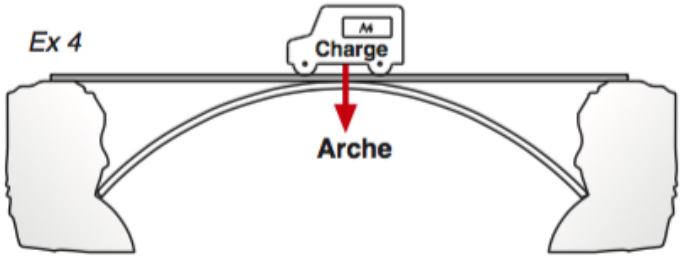	Observations :
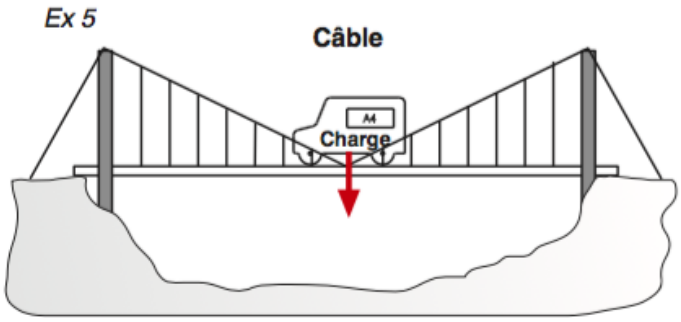	Observations :